Рабочий лист

Ученик: _____

Реши примеры столбиком.

		3	3				2	3				6	8					2				7	8					6	0
	+	2	6			+	5	7			+	2	4			+	6	9			+	1	3			+	1	3	
		5	4				1	7				3	4				5	2				7	8					4	0
	+	2	3			+	1	0			+	3	1			+	2	6			+		5			+	4	5	

Сумма чисел каждого сектора должна быть равна числу в центре круга. Заполни пропуски!

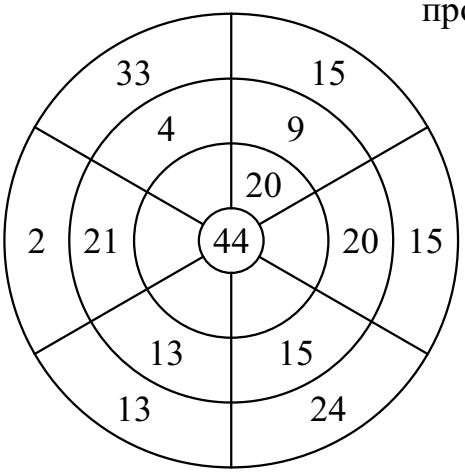

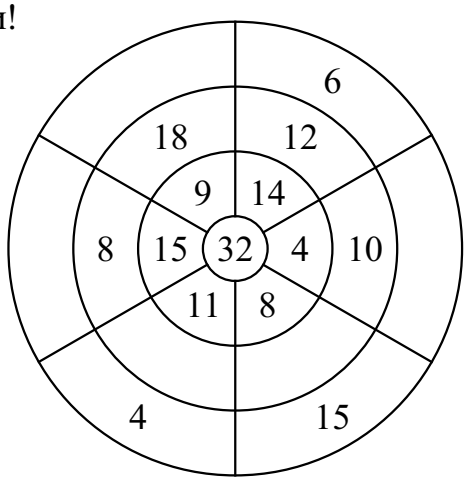

Рисование по точкам. Дорисуй так, как показано на верхней части рисунка.

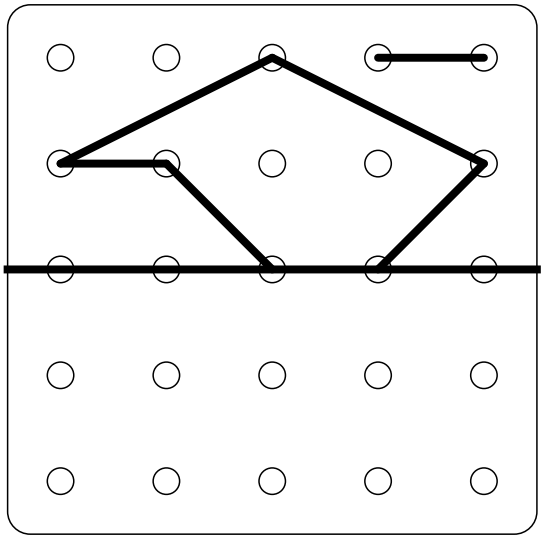

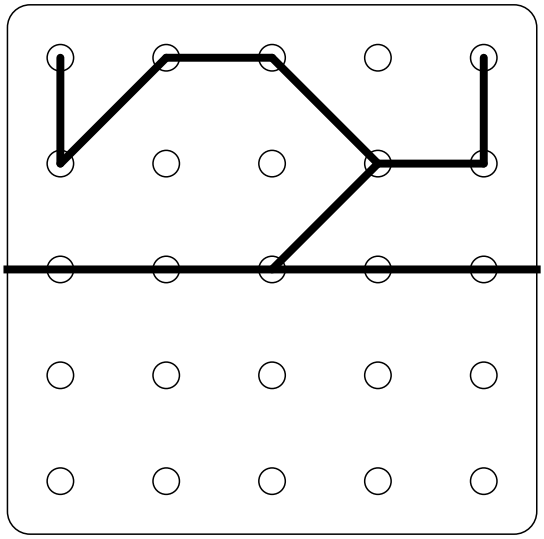

Рабочий лист

Ученик: _____

Реши примеры столбиком.

		3	3				2	3				6	8					2				7	8					6	0	
	+	2	6			+	5	7			+	2	4			+	6	9			+	1	3			+	1	3	
							1					1					1					1							
		5	9				8	0				9	2				7	1				9	1				7	3	
		5	4				1	7				3	4				5	2				7	8				4	0	
	+	2	3			+	1	0			+	3	1			+	2	6			+		5			+	4	5	
																						1							
		7	7				2	7				6	5				7	8				8	3				8	5	

Сумма чисел каждого сектора должна быть равна числу в центре круга. Заполни пропуски!

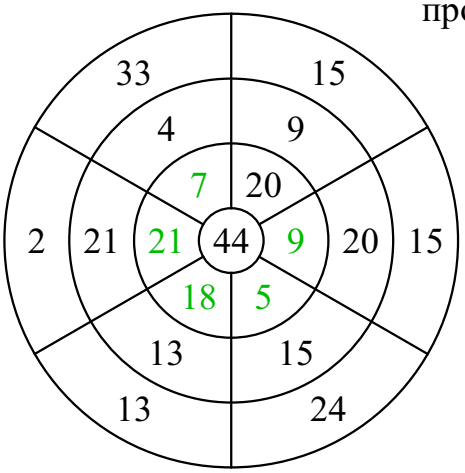

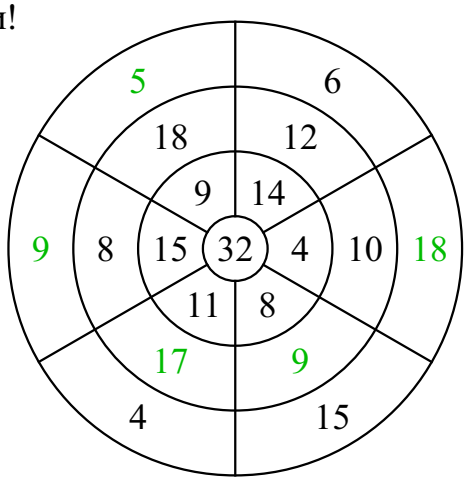
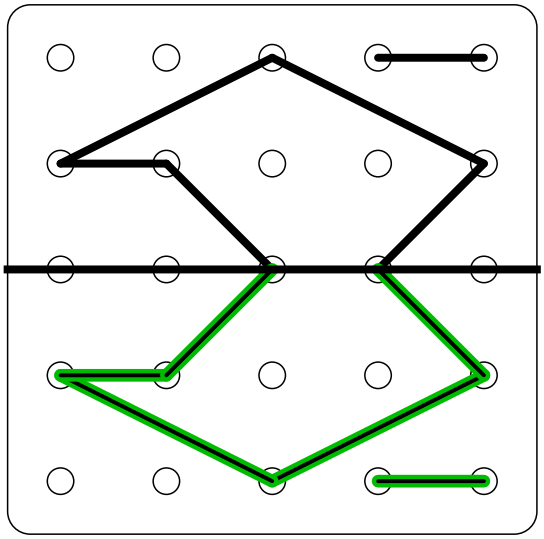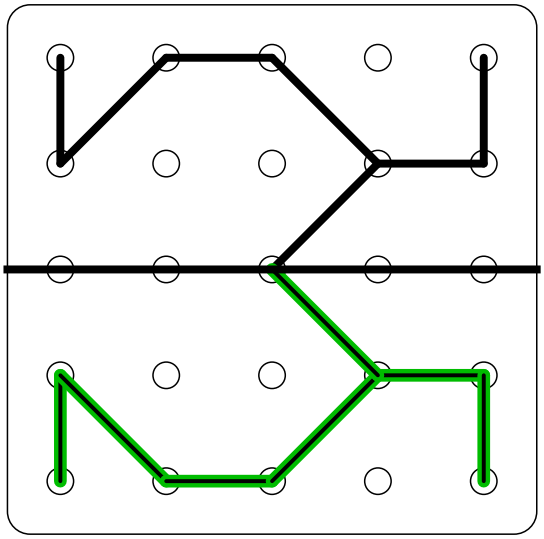
Рисование по точкам. Дорисуй так, как показано на верхней части рисунка.